ΟΝΟΜΑ: _____

ΜΑΘΗΜΑΤΙΚΑ 2η ΕΝΟΤΗΤΑ

Κεφ.14: Φτιάχνω γεωμετρικά σχήματα

1. Γράφω κάτω από κάθε εικόνα τα ονόματα των γεωμετρικών σχημάτων.







_____ _____ _____ _____

_____ _____ _____
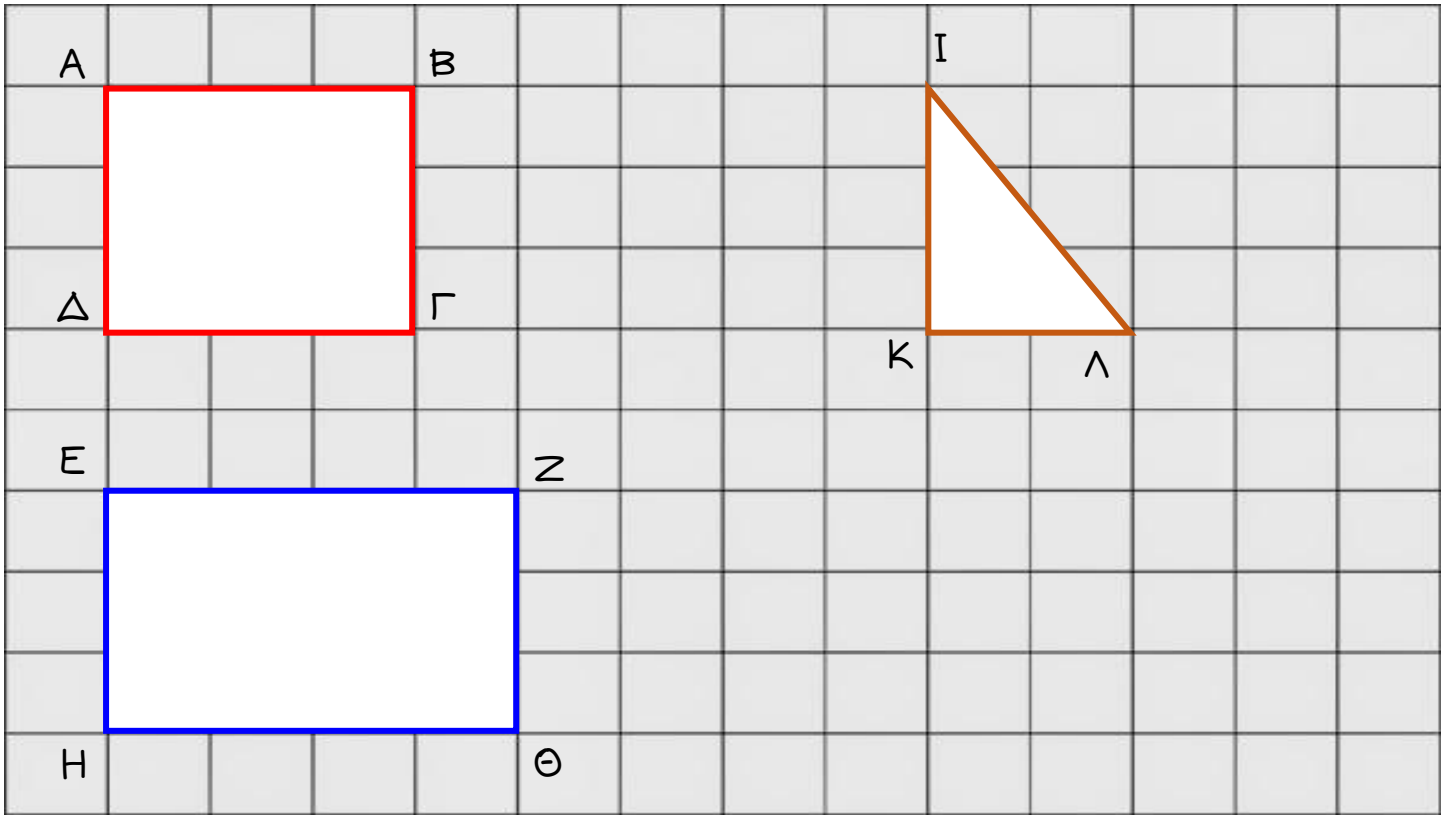
2. Αντιγράφω δίπλα τα παρακάτω γεωμετρικά σχήματα. Δεν ξεχνώ να τους δώσω όνομα χρησιμοποιώντας τα κεφαλαία γράμματα της αλφαβήτας.